MATEMATICA

TERCERO DE PRIMARIA

Que son los Numeros Decimales

Sabías que un número decimal tiene 2 partes: parte entera y parte decimal.

Parte entera			***,***	***Parte decimal***			
C	*D*	*U*	*,*	*décimo*	*centésimo*	*milésimo*	*diez milésimo*
		6	*,*	*0*	*2*	*6*	

6,026 = Seis enteros veintiséis milésimos.

Recuerda: Los números decimales están separados por una coma decimal. Ejemplo:

Parte entera ← 1 , 5 → *Parte decimal*
↳ *Coma decimal*

a) Completa los siguientes números decimales en el tablero posicional y escribe cómo se lee.

Números	***C***	***D***	***U***		***décimo***	***centésimo***	***milésimo***	***diez milésimo***	***Se lee:***
0,63									
2,008									
25,0001									
37,4									
0,0413									
5,06									
5,003									
236,119									

Seguimos con los decimales

1. Observa y luego responde:

   Brenda compró un chocolate, lo partió en 10 pedazos iguales, como ella es muy solidaria le invitó tres décimos a Lorena y el resto se lo comió.

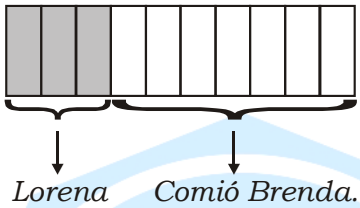

¿Qué parte del chocolate se comió Brenda? _____

¿Qué parte le invitó a Lorena? _____

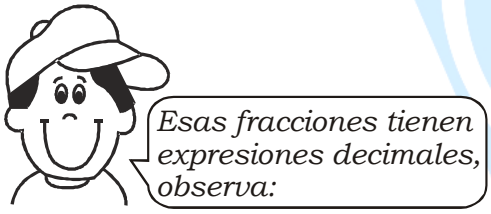

$\frac{3}{10} = 0,3 \rightarrow$ *tres décimos.*

$\frac{7}{10} = \square \rightarrow$ *siete décimos.*

2. Completa:

1. $= \frac{4}{10} \rightarrow 0,4$

2. $= \frac{\square}{\square} \rightarrow$ _____

3. $= \frac{\square}{\square} \rightarrow 0,2$

4. $= \frac{\square}{\square} \rightarrow$ _____

5. $= \frac{6}{10} \rightarrow$ _____

6. $= \frac{\square}{\square} \rightarrow 0,9$

7. $= \frac{8}{10} \rightarrow$ _____